Le dessin mystère !

6ème ➔ 5ème

La symétrie dont il est question ici est la symétrie axiale d'axe (AB) :



Place au crayon à papier :

J, milieu de [**AB**]
K, milieu de [**CJ**]
I symétrique de **H**,
L symétrique de **C**,
M symétrique de **K**,
N symétrique de **F**,
P symétrique de **D**,
Q symétrique de **G**,
R symétrique de **E**,
T symétrique de **S**,

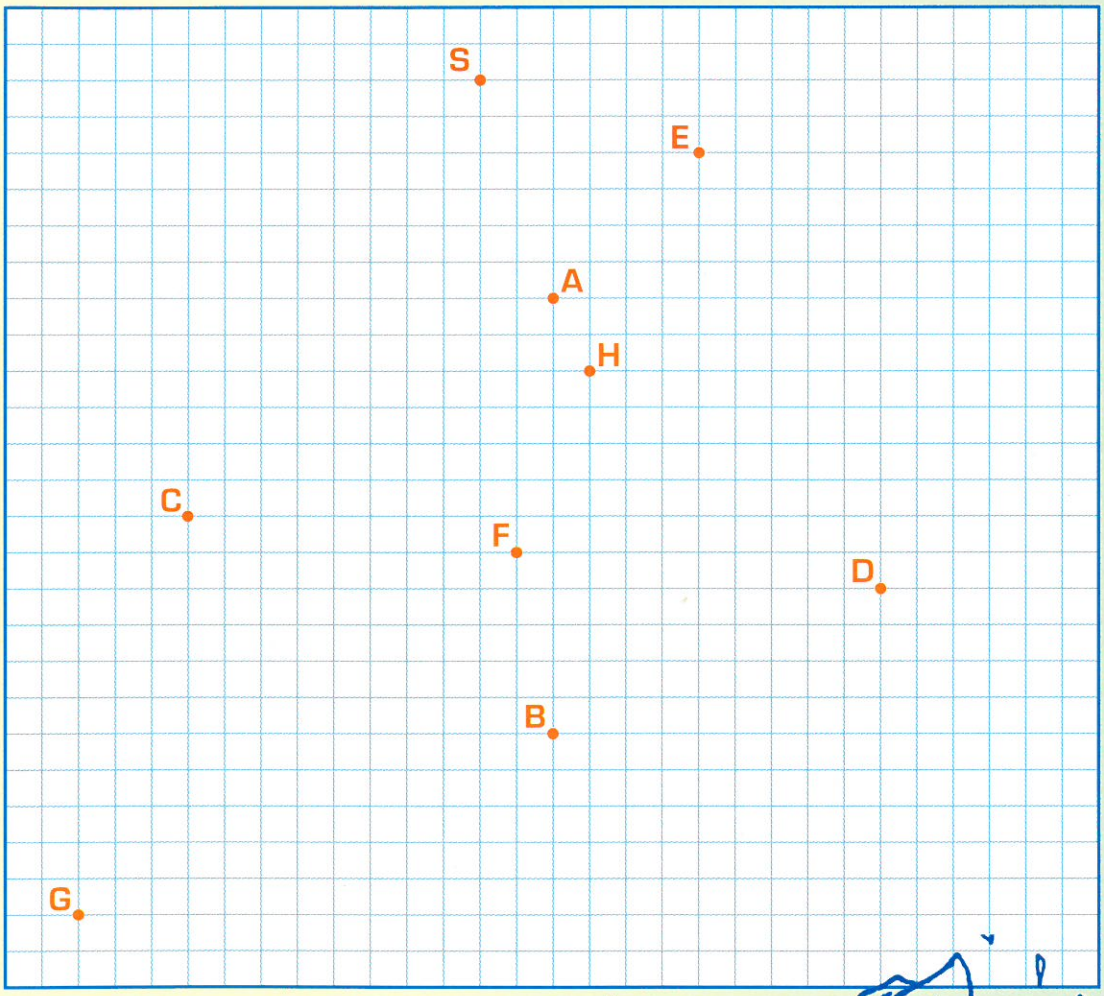

Trace, au feutre :

Les chemins **SAIJFBNJHAT** et **JKPGBQDMJ**,

les segments [**KC**], [**ML**], [**RI**] et [**EH**],

le demi-cercle de diamètre [**RC**] tourné vers la gauche, et son symétrique.



Géraud CHAUMEIL